Actividad realizada por el alumnado de 6º de primaria.

Grupo interactivos del área de Matemáticas.

Tema: Cálculo mental.

El alumnado realizó una actividad interactiva en el pusieron en práctica sus habilidades de cálculo.

Grupo 1: Sudoku interactivo en el ordenador. Sudoku.com

Grupo 2: Calculo mental de sumas y restas.

Grupo 3: Productos mentales con decimales.

Grupo 4: Cálculo mentales de tickets de compra.

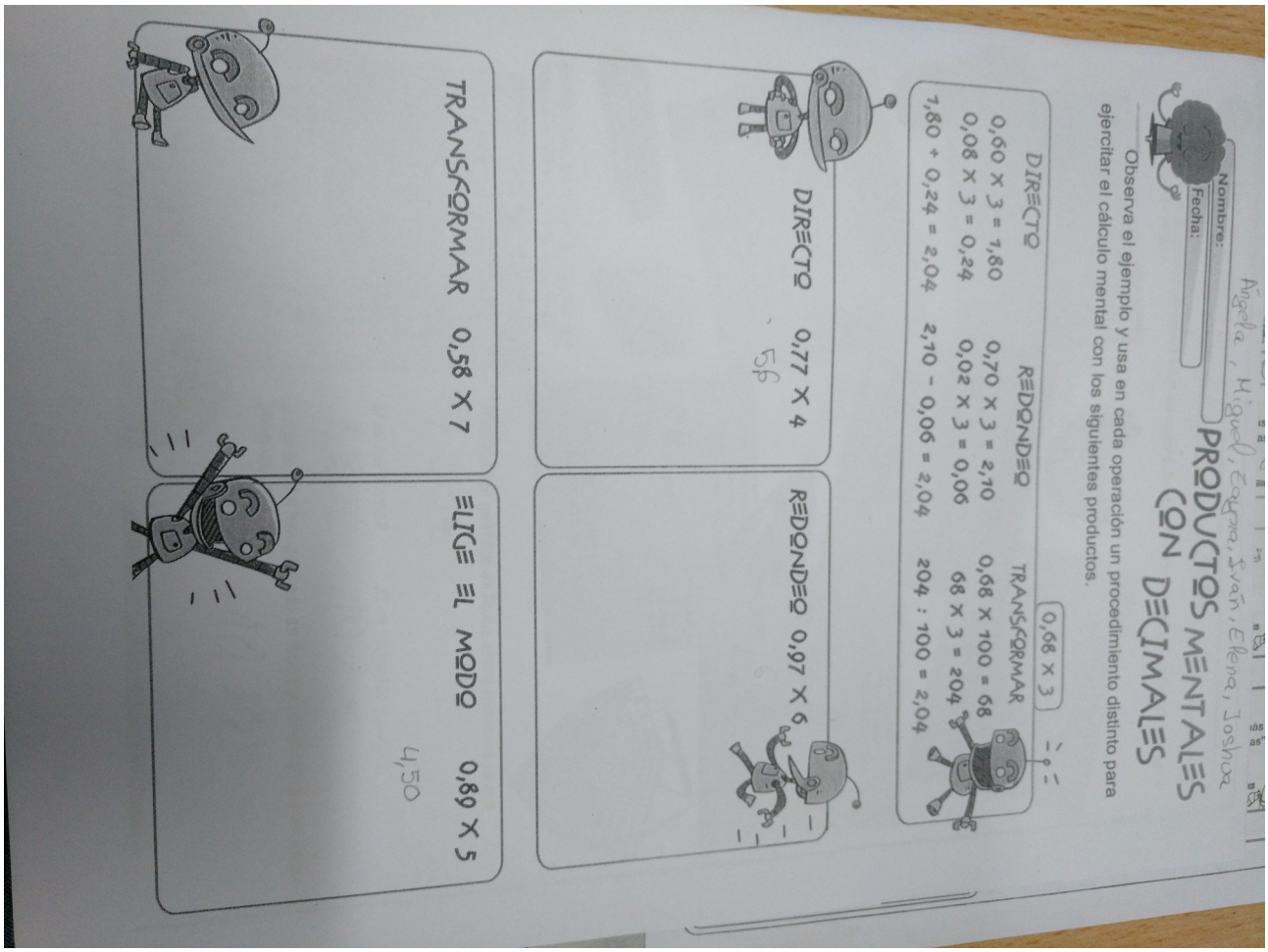

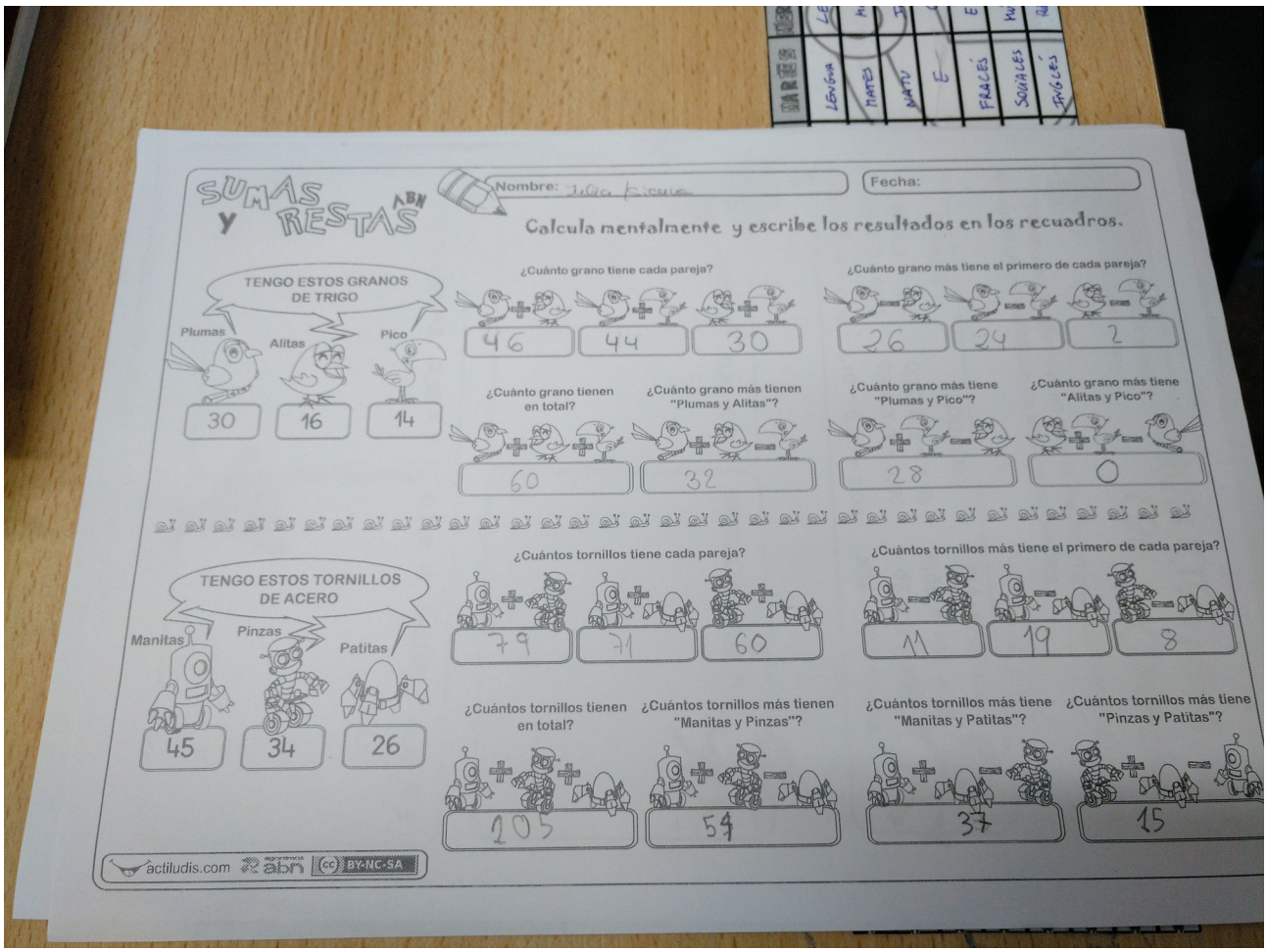

SUMAS Y RESTAS ABN

Nombre: Julia Ficura

Fecha:

Calcula mentalmente y escribe los resultados en los recuadros.

TENGO ESTOS GRANOS DE TRIGO

Plumas	Alitas	Pico
30	16	14

¿Cuánto grano tiene cada pareja?

+	+	+
46	44	30

¿Cuánto grano más tiene el primero de cada pareja?

−	−	−
26	24	2

¿Cuánto grano tienen en total?

+	+
60	

¿Cuánto grano más tienen "Plumas y Alitas"?

+	−
32	

¿Cuánto grano más tiene "Plumas y Pico"?

+	−
28	

¿Cuánto grano más tiene "Alitas y Pico"?

+	−
0	

TENGO ESTOS TORNILLOS DE ACERO

Manitas	Pinzas	Patitas
45	34	26

¿Cuántos tornillos tiene cada pareja?

+	+	+
79	71	60

¿Cuántos tornillos más tiene el primero de cada pareja?

−	−	−
11	19	8

¿Cuántos tornillos tienen en total?

+	+
105	

¿Cuántos tornillos más tienen "Manitas y Pinzas"?

+	−
54	

¿Cuántos tornillos más tiene "Manitas y Patitas"?

+	−
37	

¿Cuántos tornillos más tiene "Pinzas y Patitas"?

+	−
15	

actiludis.com abn (cc) BY-NC-SA

Nombre: Carolina, Yanira, Miguel, Adbe, Maxim, Antonio. Fecha:

Ajusta lo que han gastado en estos tiket de compra. Intenta hacerlo con cálculo mental. Y responde a las preguntas Finales.

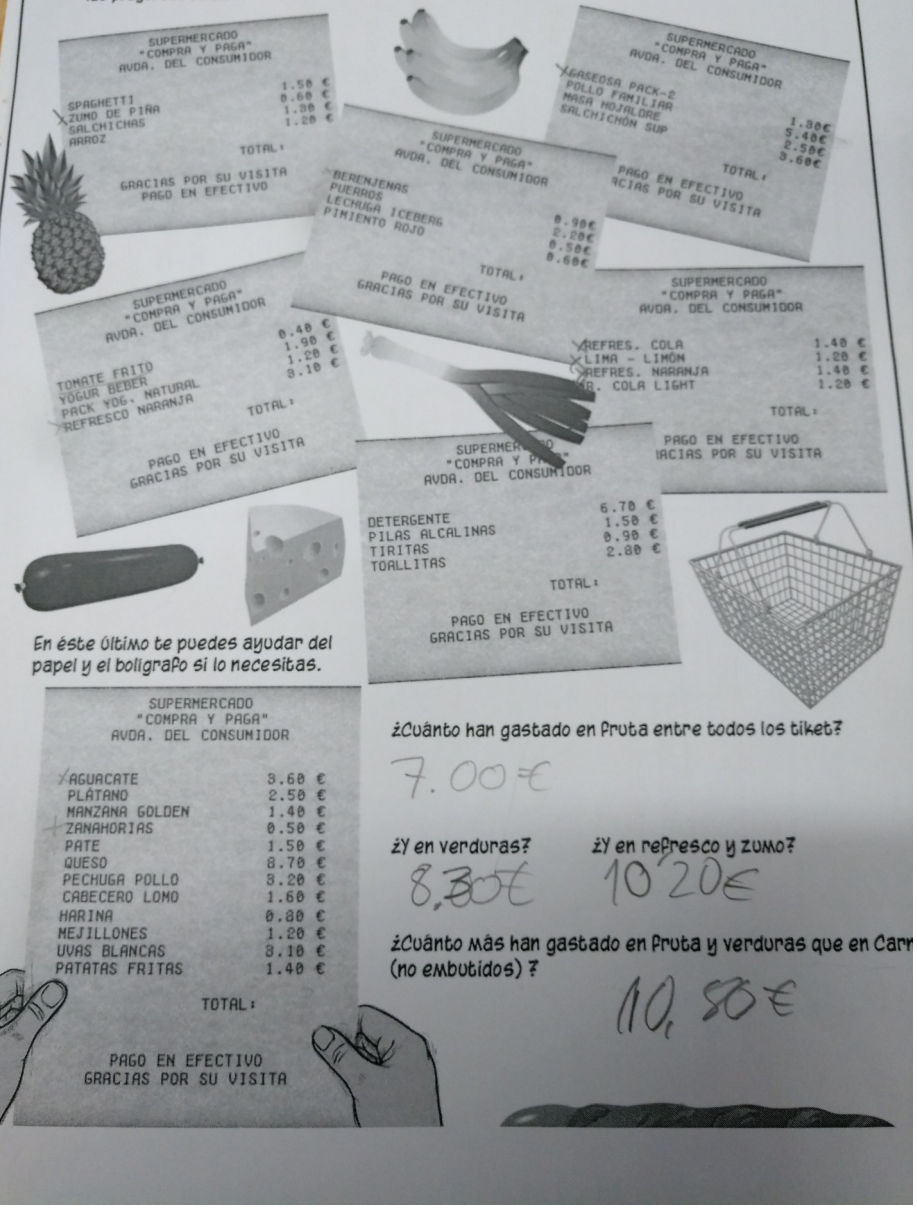

En éste último te puedes ayudar del papel y el boligrafo si lo necesitas.

SUPERMERCADO
"COMPRA Y PAGA"
AVDA. DEL CONSUMIDOR

AGUACATE	3.60 €
PLÁTANO	2.50 €
MANZANA GOLDEN	1.40 €
ZANAHORIAS	0.50 €
PATE	1.50 €
QUESO	8.70 €
PECHUGA POLLO	3.20 €
CABECERO LOMO	1.60 €
HARINA	0.80 €
MEJILLONES	1.20 €
UVAS BLANCAS	3.10 €
PATATAS FRITAS	1.40 €

TOTAL:

PAGO EN EFECTIVO
GRACIAS POR SU VISITA

¿Cuánto han gastado en fruta entre todos los tiket?

7.00 €

¿Y en verduras? 8,30 €

¿Y en refresco y zumo? 10'20 €

¿Cuánto más han gastado en fruta y verduras que en Carn (no embutidos) ?

10,80 €